Централизованное тестирование по географии, 2018

При выполнении заданий с кратким ответом впишите в поле для ответа цифру, которая соответствует номеру правильного ответа, или число, слово, последовательность букв (слов) или цифр. Ответ следует записывать без пробелов и каких-либо дополнительных символов.

В заданиях, где нужно установить соответствие между двумя столбцами, ответ запишите в виде сочетания букв и цифр, соблюдая алфавитную последовательность букв левого столбца. Некоторые данные правого столбца могут использоваться несколько раз или не использоваться вообще. Например: А1Б1В4Г2.

Если вариант задан учителем, вы можете вписать или загрузить в систему ответы к заданиям с развернутым ответом. Учитель увидит результаты выполнения заданий с кратким ответом и сможет оценить загруженные ответы к заданиям с развернутым ответом. Выставленные учителем баллы отобразятся в вашей статистике.

1. Азимут на северо-запад равен:

1) 90° 2) 135° 3) 225° 4) 315°

2. Численный масштаб карты 1:2 000 000 соответствует именованному:

1) в 1 см — 20 км 2) в 1 см — 200 м 3) в 1 см — 2 000 000 км
4) в 1 см — 200 000 км 5) в 1 см — 200 км

3. Горная порода магматического происхождения:

1) торф 2) мрамор 3) известняк 4) базальт

4.

Климатический пояс, в пределах которого на карте расположена точка с буквой:

1) тропический
2) субтропический
3) субэкваториальный
4) умеренный

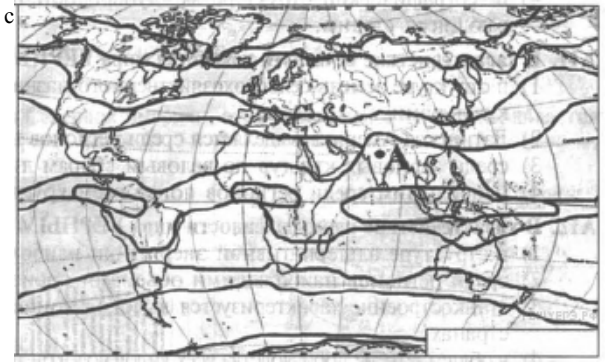

Карта составлена по состоянию на 01.01.2018

5.

На карте точка расположена в пределах акватории:

1) Белого моря 2) Северного моря
3) Норвежского моря
4) Ботнического залива

Карта составлена по состоянию на 01.01.2018

6. Из перечисленных понятий к атмосфере относится(-ятся):

1) пассат 2) астеносфера 3) вади 4) мангры

7. Уровень урбанизации Канады отражает диаграмма:

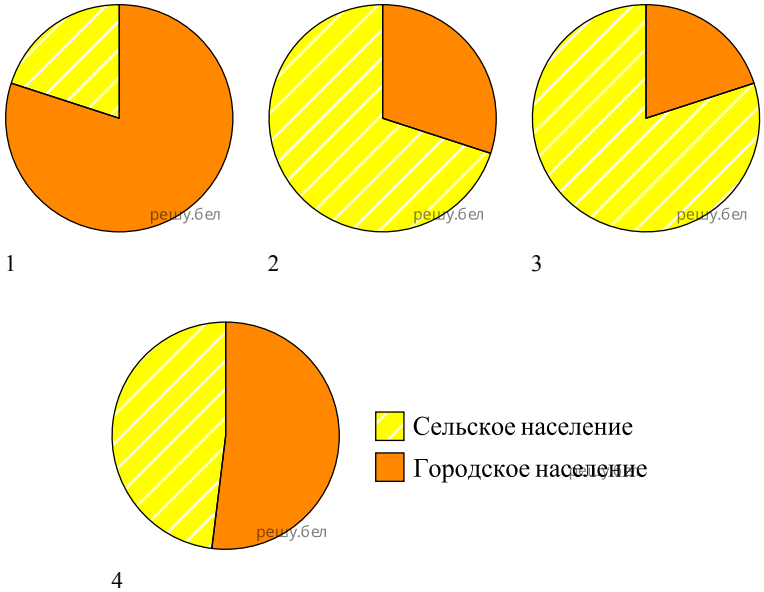

1) 1 2) 2 3) 3 4) 4

8.
На карте цветом выделено государство, столицей которого является город:

1) Варшава 2) Париж 3) Лондон 4) Берлин

Карта составлена по состоянию на 01.01.2018

9. В тройку ведущих газодобывающих стран мира входит:

1) Канада 2) Китай 3) Россия 4) Саудовская Аравия

10. В характеристике мирового хозяйства ВЕРНЫМ является утверждение:

1) вторичный сектор мирового хозяйства включает рыболовный промысел
2) одна из форм международного географического разделения труда — кооперирование
3) наибольшее количество крупных транснациональных компаний размещено в Канаде
4) в географической структуре международной торговли наибольшая доля приходится на развивающиеся страны

11. В характеристике сельского хозяйства мира ВЕРНЫМ является утверждение:

1) в структуре земель сельскохозяйственного назначения наибольшая доля занята под многолетними культурами
2) Латинская Америка выделяется среди регионов наибольшей долей в структуре валового сбора риса
3) среди зерновых культур по валовым сборам лидирует кукуруза
4) наибольшим среди регионов поголовьем крупного рогатого скота выделяется Африка

12. В характеристике промышленности мира ВЕРНЫМ является утверждение:

1) в структуре альтернативной энергетики наибольшую долю составляет солнечная энергетика
2) среди регионов наибольшими объемами производства стали выделяется Африка
3) станкостроение характеризуется высокой концентрацией сложных производств в развивающихся странах
4) в общем объеме производства всех видов волокон наибольшая доля принадлежит химическим волокнам

13. В характеристике мировой сферы услуг ВЕРНЫМ является утверждение:

1) отмечается тенденция сокращения доли сферы услуг в мировом хозяйстве
2) в структуре пассажирооборота ведущее место принадлежит автомобильному транспорту
3) в структуре грузооборота ведущее место принадлежит железнодорожному транспорту
4) Италия — мировой лидер по количеству туристских прибытий

14. В характеристике природы Африки ВЕРНЫМ является утверждение:

1) у берегов материка большое количество крупных островов
2) рельеф восточной части представлен преимущественно низменными равнинами
3) крупнейшие реки относятся к бассейну Атлантического океана
4) по богатству видового состава влажные экваториальные леса Африки не имеют себе равных ни на одном континенте

15. Для социально-экономического развития Египта в ОТЛИЧИЕ от ЮАР характерен(-на; — но):

1) более однородный этнический состав населения
2) занятость наибольшей доли трудоспособного населения страны в сельском хозяйстве
3) преимущественное использование собственных ресурсов каменного угля для развития энергетики
4) ведущая роль животноводства в структуре сельского хозяйства

16. Для природы Австралии характерно:

1) расположение западной части материка в пределах молодой платформы
2) выпадение в субэкваториальном климатическом поясе наибольшего количества осадков летом
3) преимущественно грунтовое питание реки Муррей
4) расположение природной зоны полупустынь и пустынь вдоль восточного побережья континента

17. В характеристике социально-экономического развития Австралийского Союза ОШИБОЧНЫМ является утверждение:

1) самый крупный по численности населения город страны — Канберра
2) в структуре ВВП наименьшая доля принадлежит сельскому хозяйству
3) страна является мировым лидером по добыче бокситов
4) разведение овец мериносов — основное направление овцеводства

18. В Антарктике обитает:

1) енот 2) лемминг 3) полярный волк 4) синий кит

19.

Для климатического пояса Южной Америки, отмеченного на карте буквой, ВЕРНОЙ является характеристика:

1) температуры воздуха в течение года +20...+30 °С, в распределении осадков четко выражена сезонность
2) западные ветры приносят на наветренные склоны Анд большое количество осадков — более 2500 мм в год
3) для западного побережья характерен климат береговых пустынь (гаруа)
4) характерна смена воздушных масс по сезонам года

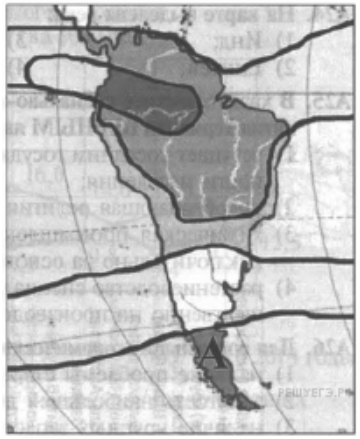

Карта составлена по состоянию на 01.01.2018

20. В характеристике социально-экономического развития Бразилии ВЕРНЫМ является утверждение:

1) по форме политико-территориального устройства является унитарным государством
2) характерен высокий уровень урбанизации
3) страна входит в тройку мировых лидеров по производству автомобилей

4) в сельском хозяйстве занята наибольшая доля населения страны

21. Характерным представителем природной зоны Северной Америки, отмеченной на карте цветом, является:

1)

3)

2)

4)

Карта составлена по состоянию на 01.01.2018

1) 1 2) 2 3) 3 4) 4

22. Для США характерна(-ен; —о):

1) республиканская форма правления
2) отрицательный естественный прирост населения
3) производство основной части электроэнергии на атомных электростанциях
4) ведущая роль животноводства в сельском хозяйстве

23.
Для природной зоны, выделенной на карте цветом, ВЕРНОЙ является характеристика:

1) расположена в области умеренного муссонного климата
2) в почвенном покрове преобладают желтоземы и красноземы
3) широко распространены колючие заросли из вереска, маслины, фисташки, можжевельника
4) обитают лемуры, тапиры, попугаи, фазаны

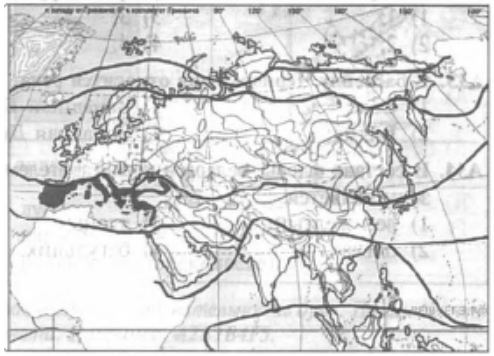

Карта составлена по состоянию на 01.01.2018

24.
На карте выделена река:

1) Инд 2) Енисей
3) Сырдарья 4) Янцзы

Карта составлена по состоянию на 01.01.2018

25. В характеристике социально-экономического развития Германии ВЕРНЫМ является утверждение:

1) уступает соседним государствам по численности населения
2) преобладающая религия — христианство
3) химическая промышленность развивается исключительно на основе угольного сырья

4) растениеводство специализируется преимущественно на производстве овощей

26. Для социально-экономического развития Великобритании в ОТЛИЧИЕ от Франции характерно(-а):

1) наличие проблемы старения нации
2) занятость наибольшей доли населения в промышленности
3) наличие крупных запасов нефти и природного газа
4) ведущая роль сельского хозяйства в структуре ВВП

27. В характеристике социально-экономического развития Японии ВЕРНЫМ является утверждение:

1) этнический состав населения сложный 2) размещение населения равномерное
3) в структуре обрабатывающей промышленности машиностроению принадлежит ведущая роль
4) сельское хозяйство полностью обеспечивает потребности страны в овощах и фруктах

28. В характеристике природы России ВЕРНЫМ является утверждение:

1) Сибирская платформа относится к числу молодых платформ
2) вулкан Ключевская Сопка — самый высокий из числа действующих вулканов Евразии
3) в умеренной континентальной климатической области азиатской части России летние температуры не поднимаются выше +10 °С
4) большая часть территории относится к бассейну Атлантического океана

29. В характеристике социально-экономического развития России ОШИБОЧНЫМ является утверждение:

1) буряты, тувинцы, калмыки исповедуют буддизм
2) наибольшая средняя плотность сельского населения отмечается на юге европейской части страны
3) предприятия передельной металлургии размещаются в крупных центрах машиностроения
4) ведущая зерновая культура — кукуруза

30.

На карте выделен участок государственной границы Беларуси с:

1) Литвой 2) Россией 3) Латвией 4) Польшей

Карта составлена по состоянию на 01.01.2018

31. Месторождение калийных солей в Беларуси:

1) Гайдуковка 2) Микашевичское 3) Петриковское 4) Руба (Рубовское)

32.

Наиболее высокая среднемесячная температура воздуха в июле на территории Беларуси характерна для пункта, отмеченного на карте цифрой:

1) 1 2) 2 3) 3 4) 4

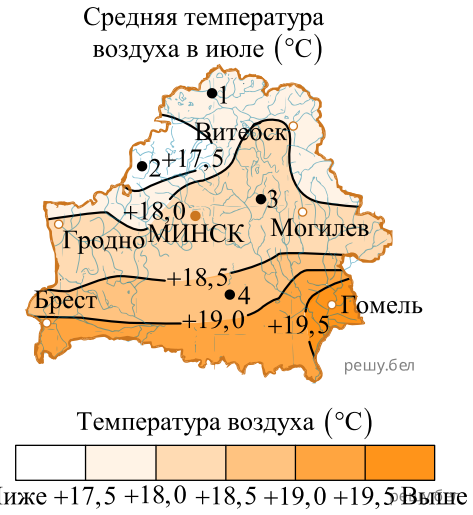

Карта составлена по состоянию на 01.01.2018

33. К бассейну Черного моря относится река:

1) Сож 2) Вилия 3) Западный Буг 4) Западная Двина

34. В составе флоры Беларуси представителем степной зоны является:

1) лен желтый 2) ольха 3) ясень 4) багульник

35. На основе анализа данных предложенных графиков отмечается:

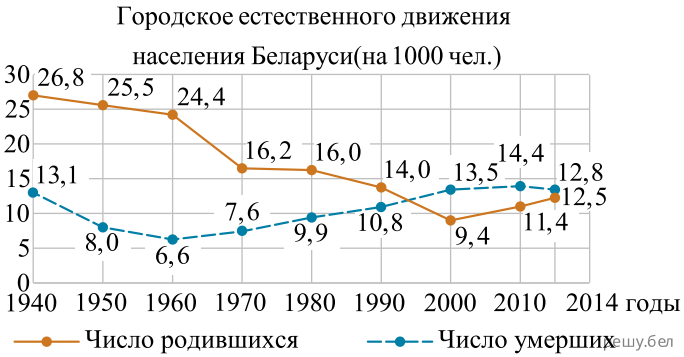

1) тенденция постоянного снижения смертности;
2) наименьшее число родившихся в 2000 году;
3) наибольшее число умерших в 1940 году;
4) отрицательный коэффициент естественного прироста населения в 1940 году.

36. Для промышленности Беларуси характерно:

1) производство большей части чугунного и стального литья из металлолома
2) использование исключительно собственных ресурсов деловой древесины
3) наличие предприятий по производству цемента в Могилевской области
4) наличие сахарных заводов во всех областях страны

37. На основе анализа данных предложенных диаграмм отмечается:

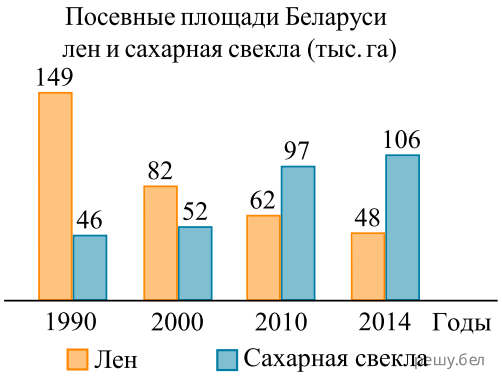

1) тенденция увеличения площади посевов как льна, так и сахарной свеклы
2) наименьшая площадь посевов льна в 2014 году
3) наибольшая площадь посевов сахарной свеклы в 2010 году
4) сохранение общей площади посевов льна и сахарной свеклы на уровне 1990 года

38. Для транспорта Беларуси характерна(-о):

1) ведущая роль железнодорожного транспорта в пассажирообороте
2) низкая доля дорог местного значения в общей сети автомобильных дорог
3) использование Днепровско-Бугского канала преимущественно для туристическо-экскурсионной деятельности
4) осуществление воздушным транспортом преимущественно международных перевозок

39. Установите соответствие между условным знаком и его названием:

Условный знак			
А)	Б)	В) 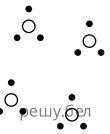	Г)

Название условного знака	
1) овраг 2) фруктовый сад 3) сплошные заросли кустарников	4) луг 5) карьер 6) редкий лес (редколесье)

Ответ запишите в виде сочетания букв и цифр, соблюдая алфавитную последовательность букв. Помните, что
не все названия условных знаков могут быть использованы для ответа. Например: А2Б1В4Г5.

40. Расположите последовательно с запада на восток (от нулевого меридиана) следующие географические объекты:

1) пустыня Тар
2) Гавайские острова
3) Мертвое море
4) вулкан Везувий

Ответ запишите цифрами, соблюдая полученную последовательность. Например: 2143.

41. Установите соответствие между характеристикой климатического пояса Африки и его местоположением, отмеченным на карте цифрой:

А) выделяется область с сухим жарким летом (+28 °С) и теплой влажной зимой (+12 °С, осадки до 1000 мм);
Б) наибольшее количество осадков выпадает в Южном полушарии на восточном побережье в летний период;
В) характерен один сезон — летний;
Г) выделяют два сезона — влажное лето и сухая зима.

Карта составлена по состоянию на 01.01.2018

Ответ запишите в виде сочетания букв и цифр, соблюдая алфавитную последовательность букв. Например: Л2Б1В4ГЗ.

42. Устойчивый период с самым низким уровнем воды в реке — это ... .

Дополните предложение и запишите ответ в виде слова.

43. Прочитайте приведенный ниже текст, в котором пропущен ряд слов. Вставьте на месте пропусков слова из предложенного списка, подходящие по смыслу.

Страны Южной Европы занимают Европейское Средиземноморье. От Африки территория региона отделена (А)_____ проливом. На острове Сицилия расположен действующий вулкан (Б)_____. Наиболее высокой плотностью населения (среди крупных государств) выделяется (В)_____. Главные сельскохозяйственные культуры, возделываемые в регионе, — оливковые деревья и (Г)_____.

Список слов:
1) Греция
2) Па-де-Кале
3) Везувий
4) Гибралтарский
5) Этна
6) Италия
7) ананасы
8) виноградная лоза

Выбирайте слова последовательно, мысленно вставляя их на места пропусков в нужной форме. Помните, что не все слова могут быть использованы для ответа. Каждое слово может быть использовано только один раз. Ответ запишите в виде сочетания букв и цифр, соблюдая алфавитную последовательность букв. Например: А2Б1В4Г5.

44. Установите соответствие.

Экономический и политический центр	Государство
А) Генуя	1) США
Б) Душанбе	2) Италия
В) Лхаса	3) Китай
Г) Детройт	4) Узбекистан
	5) Таджикистан

Ответ запишите в виде сочетания букв и цифр, соблюдая алфавитную последовательность букв левого столбца. Помните, что не все данные правого столбца могут быть при этом использованы. Например: А2Б1В4Г5.

45. Установите соответствие между характеристиками и расположением государств, отмеченных на карте цифрами:

Характеристика государства

А) государство в составе Содружества с самой высокой в мире обеспеченностью пашней на душу населения
Б) постиндустриальное, крупнейшее по площади государство материка, занимающее первое место в мире по экспорту пиломатериалов
В) ведущая угледобывающая страна мира, входит в состав БРИКС
Г) одна из ведущих стран мира по поголовью свиней, входит в состав интеграционного объединения МЕРКОСУР

Государство

1) Бразилия
2) Канада
3) Китай
4) Аргентина
5) Австралийский Союз

Ответ запишите в виде сочетания букв и цифр, соблюдая алфавитную последовательность букв левого столбца. Помните, что не все данные правого столбца могут быть при этом использованы. Например: А2Б1В4Г5.

46. Участок суши с избыточным увлажнением, вызванным близким залеганием грунтовых вод, с болотной осоковой растительностью и накоплением торфа — это ... болото.

Дополните предложение и запишите ответ в виде слова.

47. Прочитайте приведенный ниже текст, в котором пропущен ряд слов. Вставьте на месте пропусков слова из предложенного списка, подходящие по смыслу.

Восточно-Белорусская провинция в административном отношении занимает большую часть (А) _____ области. В тектоническом отношении большая часть провинции приурочена к Оршанской впадине, юго-восточная — к (Б)_____. Для рек характерно преобладание (В)_____ типа питания. Провинция характеризуется высокой освоенностью территории. Около 56% земель занимают (Г)_____

Список слов:
1) леса
2) дождевой
3) Гомельская
4) Припятский прогиб
5) Могилевская
6) снеговой
7) сельскохозяйственные угодья
8) Воронежская антеклиза

Выбирайте слова последовательно, мысленно вставляя их на места пропусков в нужной форме. Помните, что не все слова могут быть использованы для ответа. Каждое слово может быть использовано только один раз. Ответ запишите в виде сочетания букв и цифр, соблюдая алфавитную последовательность букв. Например: А2Б1В4Г5.

48. Установите соответствие между названием города и административной областью Беларуси, в которой он расположен:

Характеристика области

А) Кобрин
Б) Лида
В) Жлобин
Г) Поставы

Область

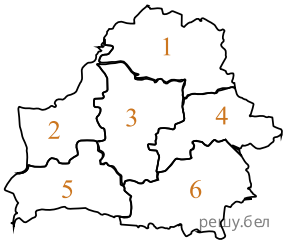

Карта составлена по состоянию на 01.01.2018

Ответ запишите в виде сочетания букв и цифр, соблюдая алфавитную последовательность букв. Помните, что не все данные, отмеченные на карте, могут быть использованы для ответа. Например: А2Б1В4Г5.

49. На территории государства площадью 5,8 тыс. км^2 проживает 0,4 млн человек. Определите среднюю плотность населения страны.

Ответ округлите до целого числа и запишите цифрами. Единицы измерения не указывайте. Например: 21.

50. Морское судно, двигаясь строго на север по меридиану от пункта с географическими координатами 31° ю. ш. 70° в. д., преодолело расстояние 1333,2 км, после чего координаты местонахождения судна составили ...° ю. ш. 70° в. д. Определите географическую широту местоположения судна.

В бланк ответов запишите значение географической широты. Единицы измерения не указывайте. Например: 70.